見本 3 時計の読み

解いた日　　月　　日

時計は何時何分ですか。下の（　）に書きましょう。

①



（　　時　　分）

②

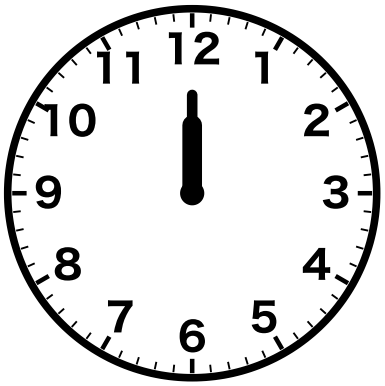

（　　時　　分）

③



（　　時　　分）

④



（　　時　　分）

⑤



（　　時　　分）

⑥

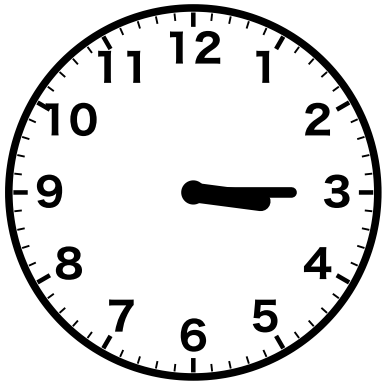

（　　時　　分）

答え（見本 3　時計の読み）

見本 3　時計の読み

① 3時30分

② 12時

③ 6時45分

④ 3時25分

⑤ 12時25分

⑥ 3時15分